Всероссийский конкурс «Математика в лесной школе»
(для учащихся 2 классов)

Задания

Ответ должен быть представлен *строго в виде одного слова или одного числа (без других дополнительных символов)*

1. Первого сентября в лесу открылась школа для зверят!

Жители леса долго спорили, выбирая название школы. И вот решение принято!

Реши примеры и запиши ответы в кружки. Расположи полученные числа в порядке возрастания. Из соответствующих им букв сложи слово.

Запиши полученное название лесной школы в ответе.

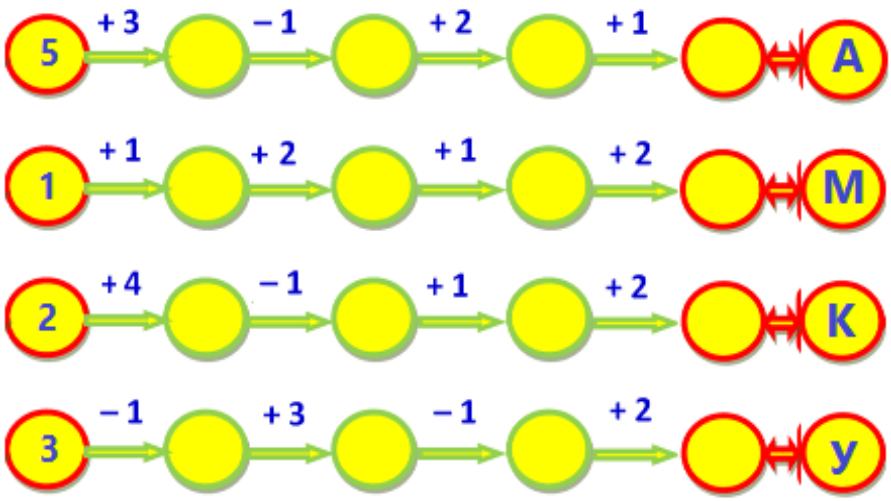

2. На этой карте обозначен путь к лесной школе. Начни с оранжевой точки, а далее следуй указаниям и рисуй маршрут до школы.

1. 3 шага вниз, к старому дубу, а потом два шага вправо и очутишься на берегу реки.
2. Дальше 5 шагов вверх по направлению к малиновому кусту, а затем 2 шага направо, чтобы обойти колючий куст.
3. 2 шага вверх, поверни направо и сделай ещё два шага.
4. Теперь 10 шагов строго вниз. Никуда не сворачивай.
5. Дальше поверни направо и сделай 2 шага. Ты на месте!

Запиши в ответе номер кружка, в котором ты оказался.

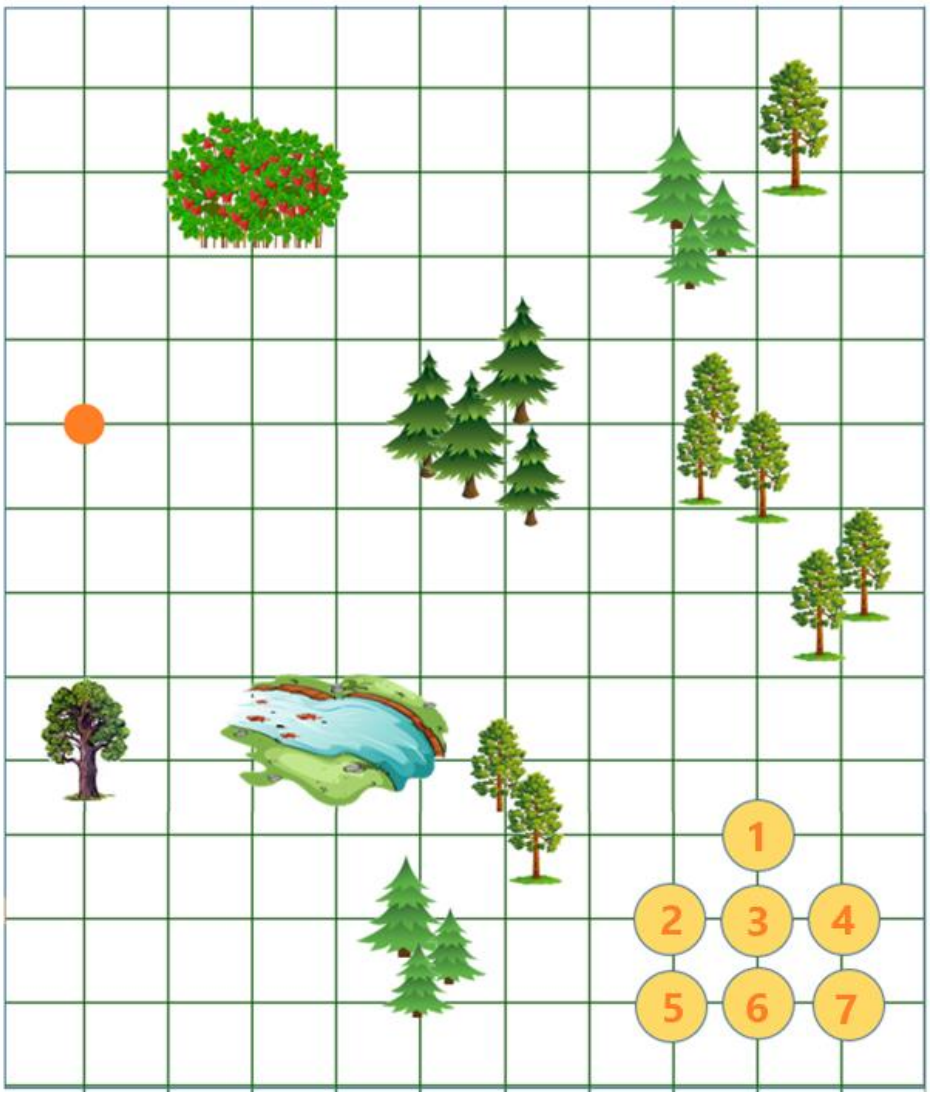

3. Трое зайчат на полянке возле школы делили собранные яблоки.

Один зайчонок взял себе половину всех яблок, другой – 1 яблоко, а третьему досталось 2 яблока.

Сколько всего яблок было у зайчат?

4. Урок математики ведёт мудрый Филин Филинович. Каждый день он открывает зверятам секреты мира чисел и фигур. Давайте отправимся на его первый урок!

Пять друзей наперегонки прибежали на урок математики. Волчонок прибежал раньше бельчонка, но позже лисёнка, зайчонок прибежал раньше лисёнка, а медвежонок – позже бельчонка.

В каком порядке зверята прибежали в школу?

В ответе запиши первые буквы названий зверят в том порядке, в котором у тебя получилось *(Волчонок – **В**, лисёнок – **Л**, зайчонок – **З**). Например, ВЗЛ.*

5. Лисёнку и зайчонку дали по пять палочек, из которых нужно было сложить геометрическую фигуру так, чтобы в ней можно было сосчитать как можно больше треугольников.

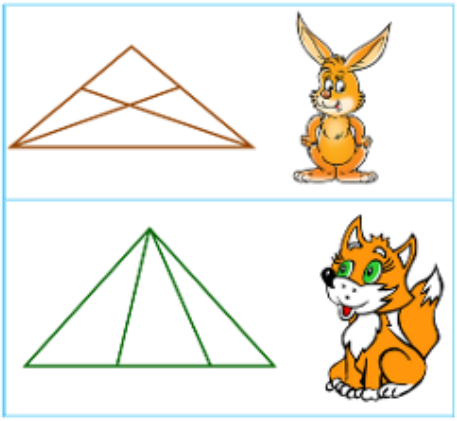

Зверята выполнили задание. Результат на рисунке.

Сосчитай, у кого получилось больше?

1) у лисёнка **2)** у зайчонка

Запиши номер выбранного варианта в ответе.

6. На обед своим малышам зайчиха положила в портфель 10 морковок. После обеда осталось 3 морковки.



Сколько зайчат у заботливой мамы, если каждый зайчонок съел по одной морковке, а самый маленький – две?

Запиши это число в ответе.

Уважаемые учителя, воспитатели и родители! Полностью задания викторины можно получить с 29 сентября в личном кабинете координатора на сайте портала «Солнечный нейтрино» www.suntrino.ru

Чтобы принять участие в турнирах необходимо зарегистрировать личный кабинет координатора на сайте https://suntrino.ru/

Сроки проведения викторины: с 29 сентября по 23 октября
Итоги: 26 октября

Наша группа ВКонтакте: https://vk.com/suntrino
Наш Телеграм-канал: https://t.me/suntrino

www.suntrino.ru